پیک بهاران پایه ششم

بهاران

۱۳۹۶

به نام خداوند جان آفرین



اسم و فامیل قشنگت و اینجا بنویس



اسم مدرسه خودت و اینجا بنویس



اسم همه کسانی که بت کمک کردن
پیک بهارانه خودت و تکمیل کنی اینجا
بنویس

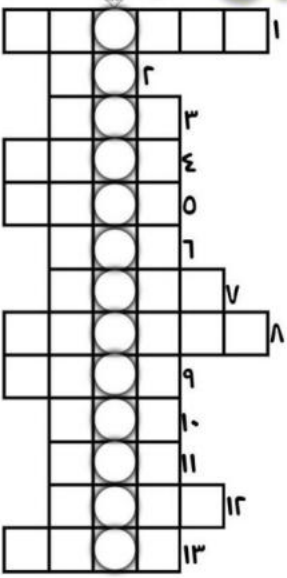

ورزش و نشـــــــاط

جدول ورزشی زیر و کامل کن و با رمز اون یک جمله بساز

۱- بازی مورد علاقه بیشتر پسر ها
۲- مادر همه ورزش ها
۳- ورزش آبی
٤- ورزش روی برف
٥- وسیله ای در وازی پینگ پنگ و بدمینتون
٦- نام دیگر دربازه بان
۷- قبل از ورزش باید انجام داد
۸- یک بازی مانند فوتبال اما با دست
۹- محل سرپوشده برای بازی ها
۱۰- وسیله ای برای گل زدن در بازی ها
۱۱- وسیله ای در ورزش ژیمناستیک
۱۲- یکی از رشته های ورزش دو و میدانی پرتاب...است
۱۳- ایران بارها در این رشته ورزشی قهرمان جهان شده است

رمز جدول:.....

زنگ نقـــاشـــی



فرض کنید راننده یک اتوبوس برقی هستید. در ایستگاه اول ٦ نفر وارد اتوبوس می شوند ، در ایستگاه دوم ۳ نفر بیرون می روند و پنج نفر وارد می شوند .
راننده چند سال دارد ؟

معنی سوره های زیر را در دایره روبرو بنویس

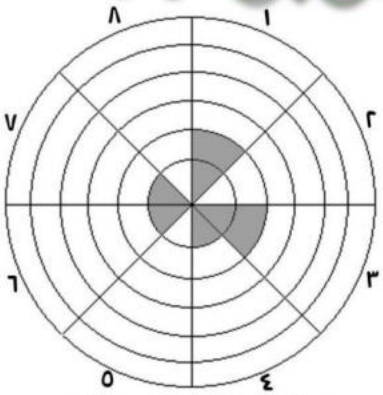

۱) ناس
۲)نصر
۳)ماعون
٤)همزه
٥)عصر
٦)تین
۷)شرح
۸)شمس

در هر یک از بیت های زیر کدام یک از ویژگی های دوست ذکر شده است؟

دوست آن باشد که گیرد دست دوست در پریشـــــان حالی و درمـــــاندگی

.....

تو اول بگـــو با کیان زیـستی من آنگه بگویـــم که تو کیستی

.....

همنشین تو از تو به باید تا تو را عقل و دین بیافزاید

.....

مراحل روش علمی را بنویس و برای هر کدام یک مثال بزن:

یک ساعت ٦٠ دقیقه است.با توجه به اعداد نوشته شده در دایره مرکزی ،دور عدد اعشاری مناسب مربوط به هر زمان خط بکشید.

هر دو کلمه ی داده شده را ترکیب کن و در جدول بنویس

موصوف و صفت	مضاف و مضاف الیه
درختان	خدا
چمن	بزرگ
بید	باد
یاد	سبز
کار	بوی
بهاری	خوش

با عدد های ۸- ۵- ۱۲- ۱۵ کسر های بزرگ تر از واحد بنویس و آن ها را به عدد مخلوط تبدیل کن.

کسر	عدد مخلوط	کسر	عدد مخلوط	کسر	عدد مخلوط	کسر	عدد مخلوط	کسر	عدد مخلوط

جدول

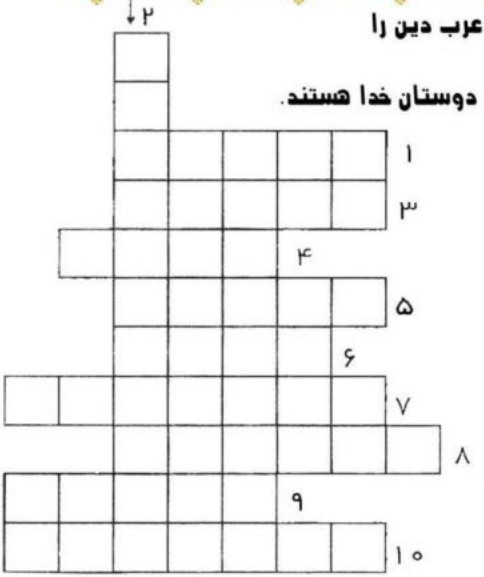

۱- با خواندن دو آیه آخر این سوره ، مرد عرب دین را به خوبی فرا گرفته بود.
۲- به معنای دوست داشتن مومنان که دوستان خدا هستند.
۳- زمان کار و تلاش جدی
٤- لقب امام هفتم(ع)
٥- نام جهان دیگر
٦- روز دانش آموز در این ماه می باشد
۷- قلب قرآن
۸- یک سوره از چهار قل
۹- از یاران امام کاظم (ع)
۱۰- پدر مومنان

چه درصدی از اعضای خانواده شما زیر ۱۸ سال سن دارند؟

جملات زیر را ادامه بده.

- آخرین مرحله در تصمیم گیری.....
- بهتر است مشورت با .....
- تصمیم گیری یعنی.....
- مشورت یعنی.....

مرحله قبلی و بعدی هر یک از مراحل زیر را بنویس.

قطع کردن درخت .....

.....از بین بردن رنگ.....

.....تولید خمیر کاغذ.....

.....تولید چیپس چوب.....

سه معنی متفاوت مهر را بنویسید و هر کدام را در یک جمله به کار ببرید.

مهر:.....

مهر:.....

مهر:.....

کسرهای داده شده را ابتدا دو به دو با هم مقایسه کن. سپس چهار کسر بزرگ تر را به ترتیب در کادر زیر بنویس.

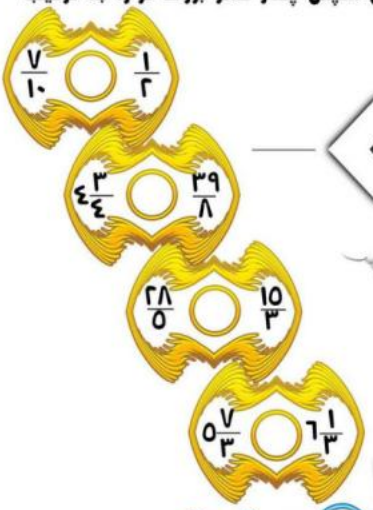

مجموع سه عدد فرد متوالی ۶۳ است.
عدد کوچکتر ، چه عددی است؟

جدول

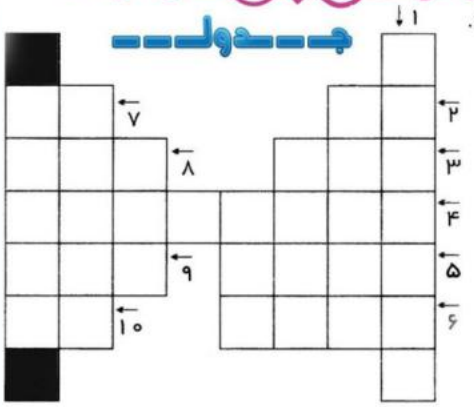

۱- خدا در قرآن از او به عنوان پدر خدا پرستان یاد کرده.
۲- همراه خاست می آید.
۳- ۱۳ آبان .....دانش آموز است.
٤- سرور آزادگان.
٥- به معنی هدایت کننده.
٦- ما فقط خدای .....را می پرستیم.
۷- اشاره به دور.
۸- در آیه ۸۳ سوره بقره ، خداوند می فرمایند با مردم به نیکی.....بگویید.
۹- پیشوایان دینی ما در دل شب به مناجات و ..... می پرداختند.
۱۰-ضمیر سوم شخص مفرد.

هر تصویر به کدام یک از ویژگی های فلزات اشاره کرده است؟



۱- [illegible]
۲- [illegible]
۳- [illegible]
۴- [illegible]
۵- [illegible]
۶- [illegible]
۷- [illegible]
۸- [illegible]

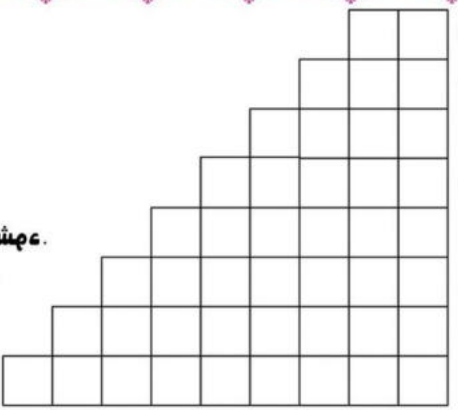

[illegible]...

کلمات مترادف را از بین کلمات داده شده پیدا کن و در جای خالی مناسب بنویس.

اگر عدد ها را به همین ترتیب ادامه دهیم به جای ؟ چه عددی می توان نوشت؟

۳.....۱۱.....۱۹.....؟

۱.....٤.....۹.....۱٦.....۲٥.....؟

به کلمات کمک کن معنی خود را پیدا کنند.

مومنون	بهشت
قلوب	شب
سماوات	دل ها
قوم	افراد با ایمان
بصیر	بینا
لیل	دانا
علیم	آسمان ها
جنه	گروه

یک حدیث در مورد نماز در این برگه بنویس

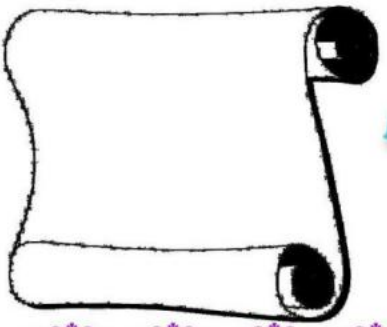

جدول

۱- اولین مرحله از کشاورزی.
۲- محصول کشاورزی ناحیه ی کناره ی دریای خزر.
۳- از عوامل انسانی(نهاده ها).
٤- باغداری یعنی پرورش...
٥- برنج جزء ... به حساب می آید.
٦- محصولی که در تمامی نواحی کشت می شود.
۷- از حبوبات است.
۸- محصول سردسیری و هسته دار.
۹- محصول صادراتی استان کرمان.
۱۰- محصول صادراتی نواحی جنوب.
۱۱- از محصولات جالیزی.
۱۲- دوستی یک... است.
۱۳- انتخاب ... یک مسئله مهم است.
۱٤- دوست خوب... و یک رنگ است.
۱٥- در تصمیم گیری می توان با ... مشورت کرد.
۱٦- مراحل نگهداری از محصول کشاورزی
۱۷- استانی جنوبی که در آن برنج کشت می شود.
۱۸- به ... تصمیم بگیریم.

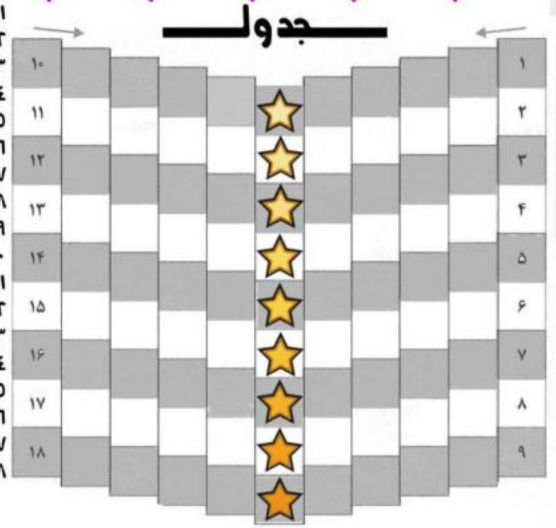

با توجه به حکایت انواع مردم، برای هر گروه زیر حداقل سه نمونه بنویس.

بعضی چون غذا هستند ، مانند..... ، ..... ، .....

بعضی چون دارو هستند، مانند..... ، ..... ، .....

بعضی چون بیماری هستند،مانند ..... ، ..... ، .....

مربع ونـقی مربعی است که مجموع اعداد هر ردیف،ستون و قطر آن با هم برابر است.
مربع ونقی روبرو را حل کن.

۱۲		۹
٤/٥	۷/٥	۱۰/٥
	۱۳/٥	۳

هر یک از موارد ستون سمت راست به کدام یک از موارد ستون سمت چپ مربوط است؟

حالت جامد دارد و از آهن و نیکل تشکیل شده	خمیر کره
حالت مذاب دارد	هسته داخلی
در عمق ۱۰۰ تا ۳۵۰ کیلومتری واقع شده	گوشته زیرین
بر روی بخش زیرین خود حرکت می کند	هسته خارجی
تا عمق ۲۹۰ کیلومتری ادامه دارد	سنگ کره

حکایت زیبای زیر از کتاب گلستان سعدی آورده شده.آن را به نثر روان بنویس.

حاتم طائی را گفتند: از خود بلند همت تر در جهان دیده ای و یا شنیده ای؟

گفت: بلی؛ روزی چهل شتر قربانی کرده بودم و امرای عرب را به میهمانی خوانده پس به گوشه ی صحرا به حاجتی رفته بودم. خارکنی را دیدم پشته ی خاری فراهم آورده. گفتمش: به میهمانی حاتم چرا نروی که خلق بر سماط او گرد آمده اند؟

گفت: هر که نان از عمل خویش خورد منت از حاتم طائی نبرد

انصاف دادم و او را به همت و جوانمردی بیش از خود دیدم

.....

.....

.....

.....

.....

کلمات زیر را دسته بندی کن و آن هایی را که با هم تناسب دارند ، در یک خط بنویس.

زبان-اتحاد-پیروزی-پهلوانان-آوا-خط-دوستی-دلاوری-وطن-واژه-نوشتار

دسته اول:.....

دسته دوم:.....

با دقت در تصویر
در جای خالی عدد مناسب بنویس.

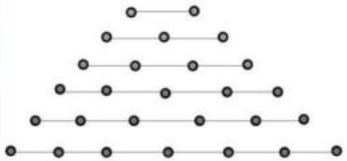

تعداد نقطه	تعداد پاره خط
۲	
۳	
٤	
٥	
٦	
۷	

جدول

۱- جزای عمل بد کردار.
۲- آخرین پیامبر خداوند.
۳- لقب امام هفتم شیعیان.
٤- اسلام و کلام هر دو دارند.
٥- به برادر پدر می گویند.
٦- مقبره ایشان در شهر قم می باشد.
۷- مسافر نماز ٤ رکعتی را...می خواند.
۸- مسافر اگر کمتر از...روز بماند نمازش شکسته است.
۹- یکی از دو عید بزرگ ما مسلمانان.
۱۰- نزدیک نیست.
۱۱- حجاج فاصله بین کدام دو کوه را هفت بار طی می کنند؟
۱۲- حسین فهمیده در این سن به شهادت رسید.

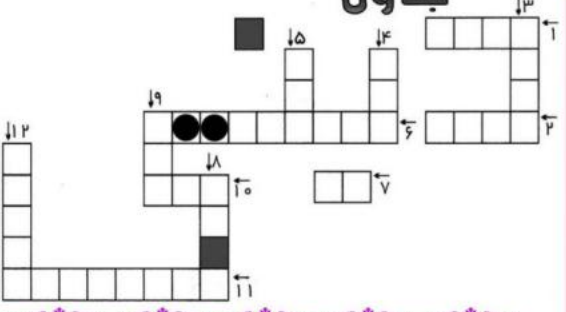

کامل کن:

خوب فکر کن و جدول را کامل کن.

نام استان	نام آتشفشان	مواد خروجی	نوع آتشفشان
	سهند	ــــــ	خاموش
مازندران			
اردبیل			
	تفتان	ــــــ	نیمه فعال

از بین کلمات داده شده قافیه را پیدا کن و در جای خودش بنویس.

به راهی در سلیمان دید موری ..... که با پای ملخ می کرد.....
به زحمت خویش را هر سو کشیدی ..... وزان بار گران هر دم.....
چنان بگرفته راه سعی در ..... که فارغ گشته از هر کس جز از خویش
به تندی گفتش ای مسکین نادان ..... چرایی فارغ از ملک.....
مرا در بارگاه عدل ..... به هر خوان سعادت میهمان هاست
بیا زین ره به قصر ..... بخور در سفره ما هر چه خواهی
چرا باید چنین خونابه خوردن ..... تمام عمر خود را.....
بگفت از سور کمتر گوی با..... که موران را قناعت خوش تر از سور
برو جایی که جای ..... که ما را از سلیمان بی نیازی است
حساب خود نه کم گیر و نه ..... منه پای از گلیم خویش بیرون
هرآن موری که زیرپای زوری است سلیمانی است کاندر شکل.....

شعر از پروین اعتصامی
(با اندکی تظیص)

در هر دایره چرخان احتمال آمدن کدام شکل بیشتر است؟ قسمت مربوط به آن را رنگ بزن.

کامل کن.

هر وسیله را به کاربردهای آن وصل کن.

برای تشخیص جریان برق	برای محکم نگهداشتن دو قطعه به هم	برای گرفتن و محکم نگهداشتن پیچ و بریدن سیم	منبع انرژی الکتریکی	برای گرفتن پیچ های کوچک یا سیم های ظریف	برای بستن مهره هایی با قطر متفاوت

کلمات مترادف را جدا کن و بنویس.

همی طلب ✿ نیکی ✿ معالجت ✿ مشفق ✿ احسان ✿ باتجربه ✿ بطلب ✿ آزموده ✿ کهن ✿ مهربان ✿ درمان ✿ قدیمی

..... و .... و .....

..... و .... و .....

..... و .... و .....

جدول داده شده را کامل کن

۲۰۰۰۰				دسی متر
			۳۰۰۰۰۰۰	میلی متر
	۷۱			متر
				سانتی متر
		۴/۲		کیلومتر

جاهای خالی را کامل کن.

نام قطعات زیر را بنویس

۱- ....
۲- ....
۳- ....
۴- ....
۵- ....
۶- ....
۷- ....
۸- ....
۹- ....
۱۰- ....
۱۱- ....

با چرخاندن دایره چرخان مرکزی ، کلمه های جدید درست کن و در جای مشخص شده بنویس.

شکل های داده شده گسترده چه حجمی هستند؟

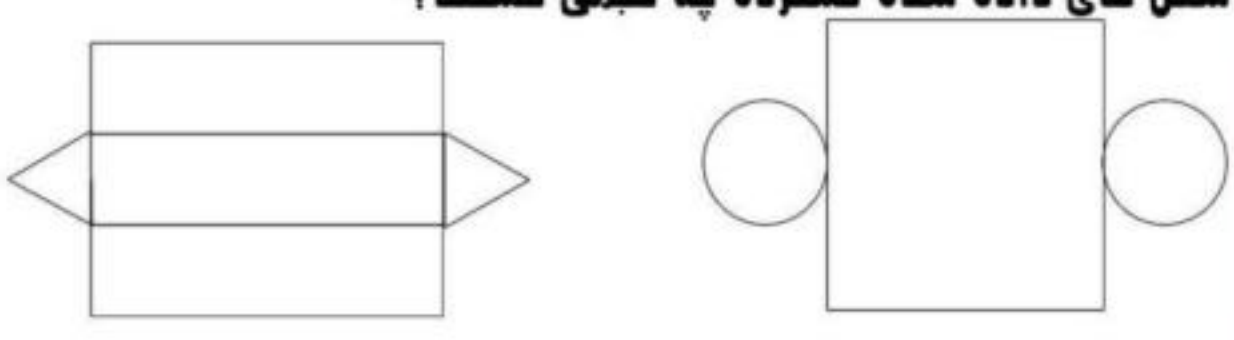

....

جدول

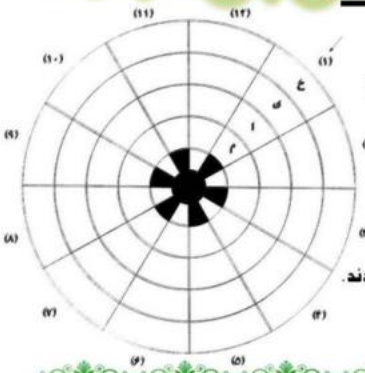

۱- از ریاضی دانان ایرانی معروف دوره اسلامی.
۲- به یک قرن می گویند.
۳- مهندس مسلمان که در قرن ششم زندگی می کرد.
٤- مهم ترین کتاب ابوعلی سینا در علم پزشکی که سال ها در اروپا تدریس می شد.
٥- در دوره اسلامی به دانشمندان می گفتند.
٦- ایرانیان مسلمان این دانش را گسترش دادند.
۷- این پزشک ایرانی بسیاری از داروها را ابتدا روی حیوانات آزمایش می کرد.
۸- پیامبر اسلام به این شهر هجرت کردند.
۹- از کلمه کیمیاگری گرفته شده است.
۱۰- مسلمانان این وسیله را اختراع کردند و از آن برای آبیاری و آبکشی استفاده می کردند.
۱۱- تعالیم اسلامی به .....و آموختن علم اهمیت زیادی می داد.
۱۲- ابوریحان بیرونی در علم.....و جغرافیا مهارت داشت.

از یک کلاس ۳۲ نفری در مورد میوه مورد علاقه شان سوال شد. با توجه به شکل به سوالات پاسخ دهید.

- چه کسری از بچه ها سیب دوست دارند؟
- چند نفر از بچه ها موز دوست دارند؟
- چند نفر از بچه ها توت فرنگی دوست دارند؟
- چند نفر از بچه ها به میوه ای غیر از سیب علاقه دارند؟

جدول زیر را کامل کن.

جمله	نهاد	مفعول	فعل	زمان فعل
هیچکس بی نیاز تر از او نتواند بود				
دوستان کهن را برجای همی دار				
هرکسی را دانشی باشد				
فردوسی با زبانی صاف صحنه های رزم را توصیف می کند				



کلمات داده شده را بر اساس حروف الفبا مرتب کن.

سپاهی- سنگلاخ- سختی- سپس- سیر- سکوت- سنگین

در شعر زیر سه تشبیه وجود دارد.ابتدا جمله ها را به زبان ساده و روان بنویس،سپس اجزای جمله تشبیهی را پیدا کن.

مثل غم در مرگ مادر
مثل کوه غصه هایی
مثل سربازان عاشق
قهرمان قصه هایی
ای وطن!

جمله	مشبه	مشبه به	ادات تشبیه	وجه شبه

دو خرگوش با هم مسابقه ی پرش گذاشتند.هر خرگوش اجازه سه پرش داشت.پرش ها به صورت زیر انجام شد.

خرگوش اول: پرش اول: $\frac{1}{4}$ ۲ واحد،پرش دوم: $\frac{3}{4}$ ۱ واحد،پرش سوم: $\frac{1}{2}$ ۲ واحد.

خرگوش دوم:پرش اول: $\frac{2}{5}$ ۲ واحد،پرش دوم: $\frac{8}{10}$ ۱ واحد،پرش سوم: $\frac{9}{5}$ ۱ واحد.

پرش ها را روی محور نشان بده.

کدام خرگوش برنده شد؟

جدول

۱- از مساجد میدان نقش جهان.
۲- از سوخت های فسیلی است.
۳- از ریاضی دانان معروف ایرانی.
٤- مرکز گاز در استان بوشهر است.
٥- از پادشاهان صفوی.
٦- سرزمین طلوع اسلام.
۷- همان نصف جهان خودمان.
۸- مهم ترین عامل پیشرفت و شکوفایی علوم و فنون مسلمانان.
۹- کاخ آن در اصفهان مشهور است.

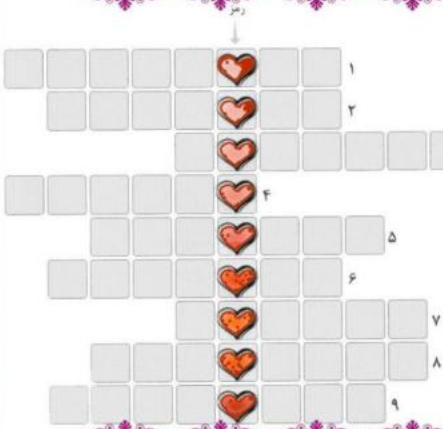

رمز جدول:.....

کلمات زیر را با حروف مناسب کامل کن.

خـ.....لت ابت..... را.....ـب ت.....ـلی
.....ـعام واعـ.....نـ.....ـم سخاو.....

موارد خواسته شده را در جای مشخص خود بنویس.

شمال

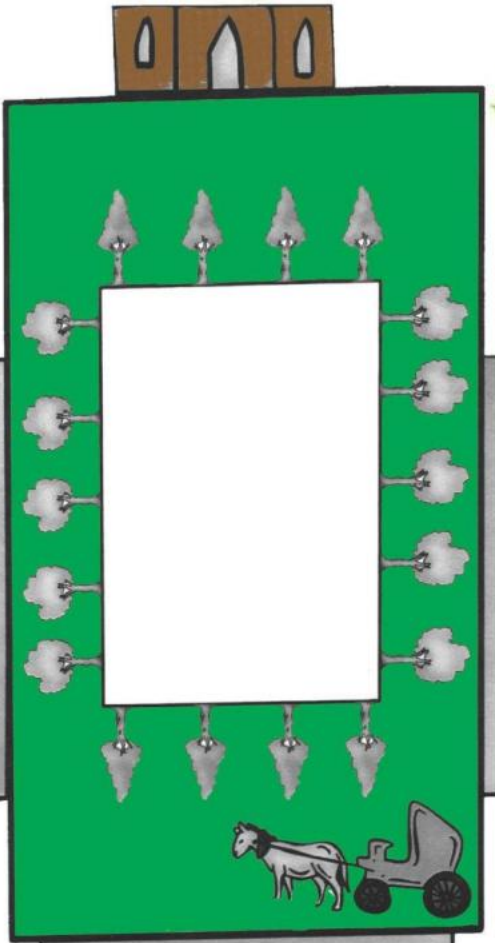

۱. به فرمان ..... ساخته شده است.

۲. عالم بزرگ ..... در آن نماز برگزار می‌کرد.

۳. ساخت این مسجد ..... سال طول کشید.

۴. در روی گنبد آن ..... بی‌نظیری دیده می‌شود.

۱. به فرمان ..... ساخته شده است.

۲. این کاخ ..... طبقه دارد.

۳. حدود ..... اتاق دارد.

۴. در داخل تالارها ..... و مینیاتورهای زیبایی دارد که کار ..... است.

۵. محلّ تماشای شاه و درباریان از بازی ..... و ..... و ..... بود.

۱. در چهار جهت جغرافیایی ..... ایران دارد.

۲. هریک از مناره‌های آن ..... ارتفاع دارد.

۳. داخل مناره‌ها پلکان‌های ..... دارد.

جدول تقریب ها را کامل کن.

عدد	روش	با تقریب	برابر است با
۳۲/۸۶۹	گرد کردن	۰/۰۱	
۲ تقسیم بر ۳	گرد کردن	۰/۰۰۱	
٤/۷x۲/۱۵	قطع کردن	۰/۰۱	

موارد خواسته شده را بنویس.



هر یک از این لباس ها مربوط به کدام منطقه ایران است؟

.....

.....

.....

.....

.....

پاسخ صحیح را از جدول پیدا کن. (از همه جهت ها دنبال جواب بگرد)



۱- دو جسم در اثر تماس با یکدیگر به همدیگر....وارد می کنند.
۲- نیرویی که از طرف زمین اجسام را به طرف خود می کشد.
۳- نیروی جاذبه ای که زمین بر یک جسم وارد می کند....نام دارد.
٤- واحد اندازه گیری....کیلوگرم است.
٥- نیرویی که یک آهنربا به آهنربای دیگر وارد می کند.
٦- نیرویی که باعث جذب خرده کاغذها به شانه می شود.
۷- عامل اصلی توقف ماشین بعد از ترمز.
۸- نیروی مقاومتی که به اجسام در حال حرکت در هوا وارد می شود.....نام دارد.
۹- نیرویی که رو به بالا به هواپیما وارد می شود.

در بیت های زیر کلماتی که کوتاه شده را پیدا کن و دور آن خط بکش.

گر پند تلخ می دهمت ترش رو مباش تلخی به یاد آر که خاصیت دواست

دی،کودکی به دامن مادر گریست زار کز کودکان کوی به من کس نظر نداشت

حجم هرم زیر ثلث حجم مکعب مستطیل است. حجم هرم چند سانتی متر مکعب(سی سی) است؟

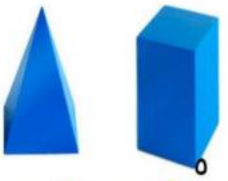

کامل کن.

خلیج فارس و دریای عمان						
کشورهای همسایه	بازرگانی	منابع انرژی	سواحل و جزایر گردشگری	رودها	ماهی ها	موجودات دریایی

روی هر فلش نام یک وسیله را بنویس که با تبدیل انرژی صورت گرفته هماهنگ باشد.

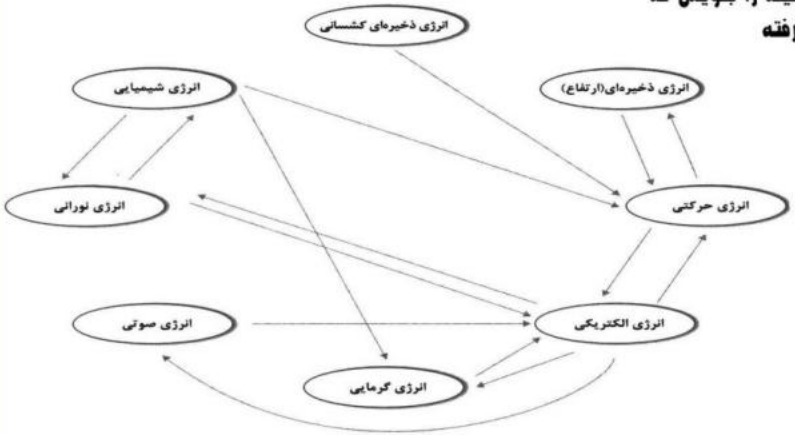

داستان زیر را از زاویه ی دید راوی(سوم شخص یا دانای کل) کامل کن و عناصر مهم داستانت را بنویس.

از دور دست ها یک فنجان بزرگ پرنده دیده می شد که در حال نزدیک شدن به خانه ی .....

.....

.....

.....

.....

.....

.....

کامل کن.

دریای خزر

رودها	بازرگانی	نام های قدیمی	کشورهای همسایه	ماهی ها

کدام یک از سلول های داده شده گیاهی و کدام یک جانوری است؟ نام آن ها را زیر شکل ها بنویس.

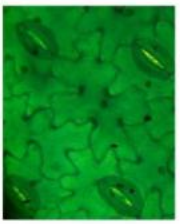

ماهیچه مخطط طولی

مقطع روده ی باریک

لوبیا برگ

اپیدرم برگ روزنه



با توجه به تصاویر مهم ترین تفاوت سلول های گیاهی و جانوری در چیست؟

جدول تناسب های داده شده را کامل کن.

دسی متر مکعب: ۴۲/۰۱	۱	سانتی متر مکعب:
متر مکعب: ۲۳/۳۵	۱	سانتی متر مکعب:
متر مکعب: ۱		دسی متر مکعب: ۲۷۰
متر مربع: ۲۷/۱	۱	سی سی:
دسی متر مربع: ۴/۲۴	۱	سانتی متر مربع:
متر مربع: ۲		دسی متر مربع: ۲۵۰

در محور مختصات زیر شکل های مربع، مثلث، لوزی، ذوزنقه ، متوازی الاضلاع و مستطیل را رسم کنید و مختصات آن ها را بنویسید.



چندی پیش موجودی عجیب از سیّاره‌ای دور دست به نام هیپتون به زمین سفر کرد. این موجود عجیب حامل نامه‌ای از طرف پارمیدا ملکه‌ی هیپتون‌ها برای مردم کره‌ی زمین بود. دانشمندان پس از سعی و تلاش بسیار سرانجام توانستند معادل فارسی حروف الفبای آن‌ها را بیابند که در جدول زیر نمایش داده شده است.

♣	ψ	λ	Ω	φ	γ	σ	θ	۞	★	○	△	Ⓟ
ز	ر	ذ	د	خ	ح	چ	ج	ث	ت	پ	ب	الف
		✶	η	©	®	ℵ	≈	÷	∂	•	♦	♥
		ق	ف	غ	ع	ظ	ط	ض	ص	ش	س	ژ
					♠	✝	✣	✇	✳	✪	○	✪
					ی	ه	و	ن	م	ل	گ	ک

ψ ✪ ★ ♦ ✣ Ω ✇ Ⓟ ♦ ✇ Ⓟ ✣ ○ ✇ ✝ ψ η Ⓟ △ ✇ Ⓟ ✳ Ω ψ ✳ Ⓟ ✳ • ψ △ ✳ Ⓟ ✪ ♦

Ⓟ .✳ ★ ♦ ✝ ✇ ✣ ★ ○ ♠ ✝ ✝ ψ Ⓟ ♠ ♦ ✝ ✪ ✪ ✳ Ⓟ Ω ♠ ✳ ψ Ⓟ ○ ✇ .✳ ✇ ♠ ✇ ✳ ♣ ✝

✳ Ω ψ ✳ Ⓟ ✳ • ♠ ★ ♦ ψ ○ Ⓟ Ω φ ✣ ♠ ★ ♦ ✣ Ω ® ✣ ✇ ♠ ✇ Ⓟ △ ψ ✝ ✳ ✝ ♣ Ⓟ ✣

• ♠ ○ ✇ ♠ ✇ σ ✳ ✝ .★ ♦ Ⓟ ✝ Ω ♠ σ ♠ ○ Ⓟ ✝ ✇ Ⓟ • ✪ ✝ ✪ ✳ Ⓟ ✳ ★ ψ Ω ✇ ♠ ✳ ♣

✝ ✇ ♠ ✳ ♣ ψ Ω ∂ ✣ ∂ φ △ Ⓟ ✝ ✝ ✇ ♠ ✳ ♣ ✝ ✳ ✝ ψ Ω Ⓟ ✳ • ♠ ✳ ✪ ® ♠ Ⓟ ✝ ★ η ψ

△ ψ θ ✳ ✇ Ⓟ ✪ • ♣ ○ Ω ✣ θ ✣ ♣ Ⓟ Ⓟ ★ ★ • Ⓟ Ω ✇ Ⓟ ψ △ Ⓟ ψ Ⓟ ✳ ♠ ✪ • ♣ ○

♣ Ⓟ .✳ ♠ ✇ ✪ ✝ Ω Ⓟ η ★ ♦ Ⓟ Ω ✣ φ ✇ Ⓟψ Ⓟ ✳ ♠ △ ✇ Ⓟ ✳ ψ Ω ♠ Ⓟ ψ △ Ⓟ ✳ •

Ⓟ ♠ ♦ ♣ Ⓟ Ω ♠ Ω ♣ Ⓟ △ ♠ Ⓟ ψ △ ✇ ♠ ✳ ♣ ✝ ψ ✪ ✇ Ⓟ △ ψ ✝ ✳ ✳ Ω ψ ✳ Ⓟ ✳ •

✝ ✪ ✪ ✳ Ⓟ Ω ♠ ✳ ψ Ⓟ ○ ψ ✪ • ★ Ⓟ △ .✳ ♠ ✇ ✪ ♠ ✳ ★ ✣ ® Ω ✇ ✣ ★ ○ ♠ ✝ ✝ ψ

✇ ✣ ★ ○ ♠ ✝.

آیا می‌توانید نامه‌ی ملکه‌ی هیپتون‌ها را به فارسی ترجمه کنید.

برای این‌کار ابتدا معادل فارسی حروف را زیر آن نوشته و با توجّه به نقطه‌ها و ویرگول‌ها سعی کنید متن را حدس بزنید.

متأسفانه هیپتون‌ها بین کلمات فاصله نمی‌گذارند و این کمی کار را سخت می‌کند.

امّا یادتان باشد نقطه و ویرگول‌ها را در جای درست قرار می‌دهند.

.....

.....

.....

.....

.....

پاسخ درست را در جدول علامت بزن.

ویژگی‌ها	دریای خزر	دریای عمان	خلیج‌فارس
۱- دارای جزایر فراوان است.			
۲- عمق آن بیش‌تر است.			
۳- به اقیانوس هند راه دارد.			
۴- شوری آن بیش‌تر است.			
۵- رودهای گرگان و هراز به آن می‌ریزند.			
۶- دارای خورهای زیاد است که برای بندر مناسب‌اند.			
۷- ایران و پاکستان به آن راه دارند.			
۸- بزرگ‌ترین دریاچه‌ی جهان است.			
۹- قزاقستان و ترکمنستان به آن دسترسی دارند.			
۱۰- رود شور به آن‌جا می‌ریزد.			
۱۱- کشورهای کویت و عربستان و قطر به آن دسترسی دارند.			
۱۲- از طریق ایران با آب‌های آزاد جهان مرتبط است.			

هر یک از موارد ردیف ستاره را به عبارت های مناسب ردیف ماه وصل کن.

حفره های چوب پنبه	روی نمونه را می پوشاند	میکروسکوپ جدید	جلبک سبز	سلول های جانوری	لام	یک چشمی	پیچ تنظیم کند	پیچ تنظیم تند	

دو چشمی	ماکرو	سلول های پوششی دهان	میکروسکوپ قدیمی	لامل	میکرو	سلول	تیغه ی شیشه ای	رشته های سبز درون آب	

کلمات متضاد را پیدا کن و بنویس.

عیب-شب-اندوه-روز-کامل-حسن-شادی-غروب-ناقص-ستایش-طلوع-نکوهش

.....

در هر شکل مساحت قسمت رنگی را به دست بیاور.

ضلع مربع= ۲ س

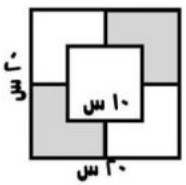

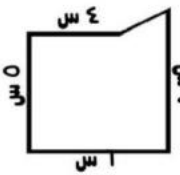

به ترتیب زمان رویدادها ، آن ها را در جای مشخص شده بنویس.

مقاومت مردم خرمشهر در برابر ارتش عراق

سقوط خرمشهر

۳۱ شهریور ۱۳۵۹

محاصره آبادان توسط ارتش عراق

آمادگی پذیرش قطعنامه

آزادی خرمشهر

عملیات بیت المقدس

۱- ..... ۵- .....

۲- ..... ۶- .....

۳- ..... ۷- .....

٤- ..... ۸- .....

جدول

۱- با پارچه ای که مشتریان به او می دهند با سلیقه لباس می دوزد.
۲- مقدار پولی که می توانیم برای انجام یک کار یا خرید یک چیز بپردازیم.
۳- از روی الگوهایی که دارد پارچه را می برد.
٤- همه کسانی که در کارگاه تولید لباس همکاری می کنند تا کالا به صورت نهایی آماده شود.
٥- صاحبان کارگاه تولید لباس پارچه ها را از آنان خریداری می کنند.
٦- در آن موزه لباس های مطی دیده می شود.
۷- به تولید یک کالا به یک شکل و به تعداد زیاد می گویند.
۸- به لباس های مخصوص اقوام ایرانی می گویند.

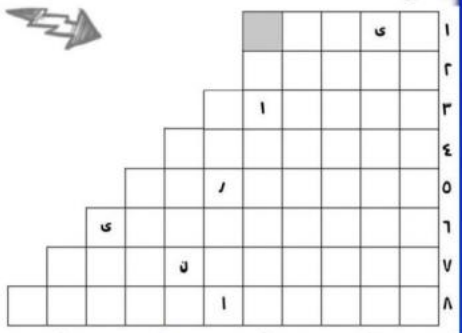

رمز جدول: من دوست دارم لباس.....بپوشم.

در مورد کاهش آلودگی هوا به وسیله ی گیاهان نمودار داده شده را کامل کن.

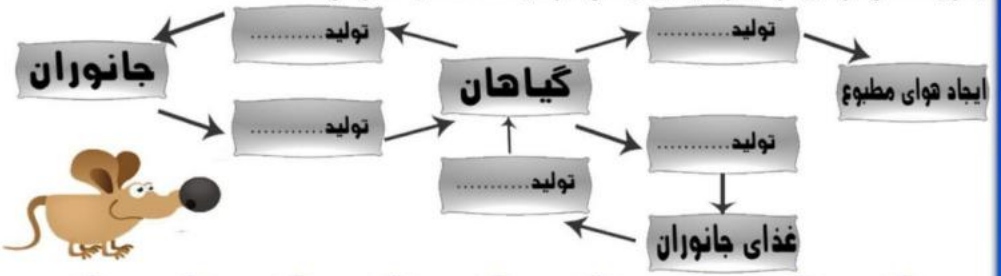

بین اعداد و اشکال هر یک از مجموعه های زیر رمزی نهفته است. با کشف رمز به جای علامت سوال عدد مناسب قرار بده.

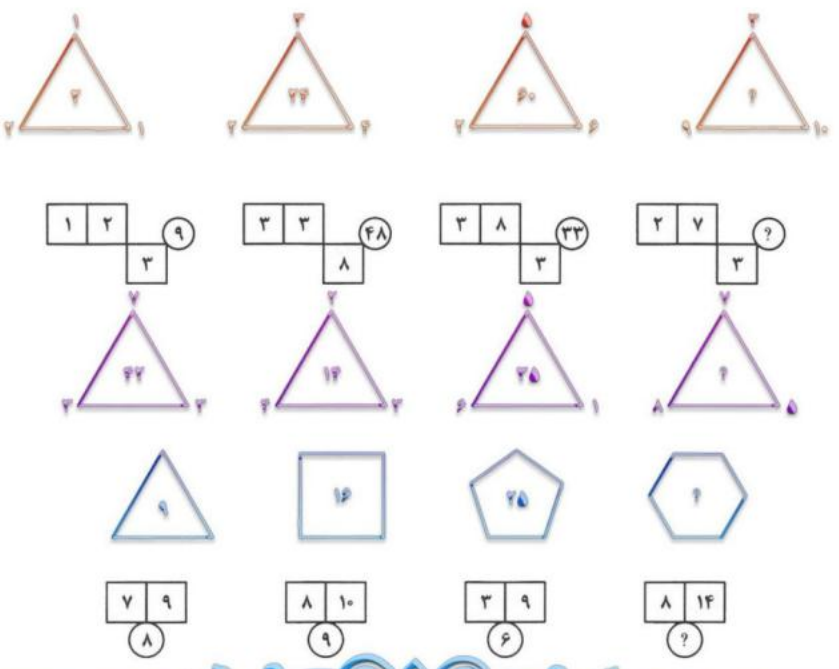

جدول



۱- خلیج فارس در زمان هخامنشیان به.....معروف بود ـ پیش روی آب دریا در خشکی.
۲- آب راه میان دو دریا ـ رودخانه ای که به دریای خزر می ریزد.
۳- بندر جنوبی کناره ی دریای عمان ـ نوعی ماهی در دریای خزر.
٤- عمق خلیج فارس به طور متوسط.....متر است ـ بندری در جنوب ایران.
٥- ایران از طریق دریای خزر به این کشور مربوط می شود.
٦- نام دریای خزر در کتب اروپاییان ـ تعداد استان های کناره ی دریای خزر.
۷- بزرگ ترین جزیره ی جنوبی ایران ـ کشور عربی همسایه ی ما در آب های جنوب.
۸- شوری دریای خزر.....از دریای جنوب است ـ همسایه ی عربی ما.
۹- از مهم ترین آبزیان دریاهای جنوب ـ از اوایل فصل..... صید ماهی ممنوع می شود.

هر یک از گیاهان زیر کدام یک از مواد "قند،روغن و نشاسته" را بیشتر ذخیره می کنند؟
این مواد در کدام قسمت "دانه،میوه،ساقه و یا ریشه" ذخیره می شوند؟
با خط وصل کن.

قند	روغن	نشاسته

لوبیا	گندم	سیب زمینی	نیشکر	سویا	ذرت	چغندر	آفتاب گردان	زیتون

دانه	میوه	ساقه	ریشه

جدول فوتوشیکی(بازی نامساوی ها)

در جدول ٥در٥ مقابل اعداد ۱ تا ٥ را طوری در سطر ها و ستون ها قرار بده که در هیچ سطر و ستونی هیچ یک تکرار نشوند و همچنین نمادهای کمتر یا بیشتر در آن رعایت شوند.



با استفاده از کلمات داده شده ، عبارات زیر را کامل کن.

نیست * است * پاسگاه های مرزی * عراق * ترکمنستان * مرز * قفقاز * آرارات * پاکستان * پدیده های طبیعی

۱- .....مسئول حفاظت از مرزها هستند.
۲- ایران با کشور.....طولانی ترین مرز را دارد.
۳- بین کشور ها .....وجود دارد.
٤- ارتفاعات .....بخشی از مرز بین ایران و ترکیه است.
٥- خط مرزی تنها روی زمین ..... .
٦- گاهی.....مرز بین دو کشور قرار می گیرد.
۷- در کشور.....نوروز را عالم افروز می نامند.

مـــــــــاز

به خودت ده دقیقه وقت بده و راه را پیدا کن.



درخت بلوط، موش، مار و گندم را طوری نقاشی کن که زنجیره ی غذایی تکمیل شود.

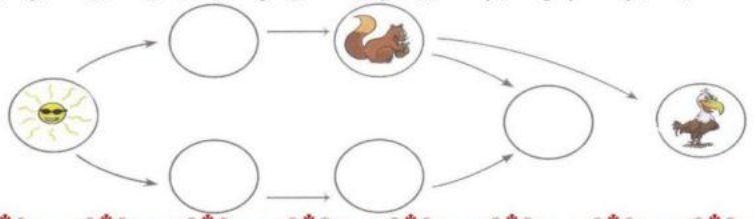

برای هر یک از کلمه های داده شده یک هم خانواده بنویس.

مقصود	جماعت	اعتدال	منتظر	شرم
.....	.....	.....	.....	.....

هر کدام از علامت سوال ها چند درجه است؟

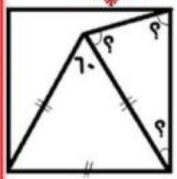

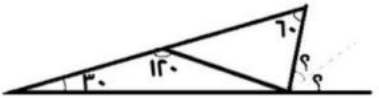

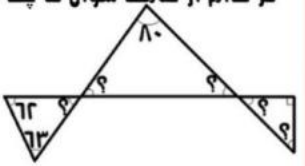

با توجه به نقشه پاسخ بده.

۱- همسایگان ایران را روی نقشه نام گذاری کن.

۲- اقیانوس هند را روی نقشـــه مشخص کن.

۳- جدول را کامل کن.

ردیف	نام کشور	پایتخت	زبان	دین
۱				
۲				
۳				
۴				
۵				
۶				
۷				
۸				
۹				
۱۰				
۱۱				

با کمک خانواده ی خود به سوال زیر پاسخ بده.

دو فعالیت انسان که موجب از بین رفتن جنگل ها شده است را نام ببر.

.....

.....

جدول

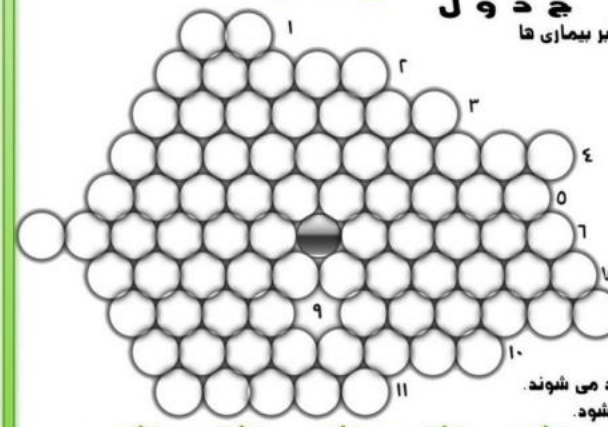

۱- میکروبی که در شش ها زندگی می کند.
۲- گلبول های سفید علیه آن پادتن می سازند و بدن در برابر بیماری ها مقاوم می شود.
۳- بهتر از درمان است.
٤- دارویی که در خوردن آن باید خیلی دقت کرد و به موقع و به اندازه خورد.
٥- وقتی میکروب در بدن جانوران دیگر زندگی می کند به این جانوران ..... می گویند.
٦- عامل ایجاد بیماری فشار خون زیاده روی در مصرف غذاهای.....و.....است.
۷- گلبول های سفیدی که به میکروب ها حمله می کنند و آن ها را می خورند.....نام دارند.
۸- عامل ایجاد بیماری های واگیردار.
۹- اولین سد دفاعی بدن در برابر میکروب ها چیست؟
۱۰- بیماری هایی که در اثر اختلالات دستگاه های بدن ایجاد می شوند.
۱۱- مصرف کمتر از حد این ماده باعث نرمی استخوان می شود.

کلمات داده شده را در دو دسته ی مشخص شده بنویس.

منه- آه- به به - وه- کاشکی- برو- عجب- خوشا- زار- بارک ا...- رفتم- اوه
بله- گاه- مبادا- آفرین- وای- مرحبا- زینهار- نه- عجبا- احسنت- ساکت

تعجبی	تحسینی

جدول زیر تعداد دانش آموزان یک واحد آموزشگاهی در سه مقطع ابتدایی ، راهنمایی و دبیرستان را نشان می دهد.
نمودار دایره ای آن را رسم کنید.

مقطع	تعداد	درصد
ابتدایی	۳۲٤	
راهنمایی	۲٥۲	
دبیرستان	۱٤٤	

سوال

- منظور از درخت بومی یک منطقه چیست؟
- اگر در کاشت درخت بومی یک منطقه دقت نشود چه اتفاقی می افتد؟
- گیاه بومی با ارزش منطقه شما چیست؟برای حفاظت آن چه کاری می توان انجام داد؟

پاسخ سوالات زیر را در جدول داده شده پیدا کن. با استفاده از حروف باقی مانده رمز جدول را بنویس.

ا	م	د	ی	ت	ر	ا	ن	ه
ق	س	ا	ع		ا	ی	پ	ر
پ	ا	ت	س	ی	و	و	ه	ت
ر		ج	ع	پ	ل	ن	ل	ج
ت	ا	ن	ا	م	ا	س	و	ا
غ	ر	ج	ن	ر	ا	ن	ی	ر
ا	ا	و	ف	ی	ی	ر	ی	ت
ل	ک	م	ت	س		ه	ئ	ا
	ل	ج	غ	ر	ا	ف	ی	ا

۱- بیشترین نفوذ و دخالت بیگانگان در کشور ما در دوره ی .....و.....بوده است.
۲- به معنی آباد کردن است.
۳- موجب رشد شهرنشینی در اروپا شد.
٤- این دو علم در شناخت سرزمین ها و راه های دریایی به اروپاییان کمک کرد.
٥- اروپاییان از طریق این دو دریا توانستند محصولات زیادی از مسلمانان خریداری کنند.
٦- دو کشور که در کشف سرزمین های جدید پیشگام بودند.
۷- در آغاز جنگ جهانی.....انگلیسی ها جنوب ایران را اشغال کرده بودند.
۸- دکتر مصدق و آیت ا...کاشانی برای ملی کردن آن بسیار مبارزه کردند.
۹- نام کوچک میرزاکوچک خان جنگلی.....بود.
۱۰- زادگاه امیرکبیر.

رمز جدول:.....

در زیر تعدادی از رفتار های ما ذکر شده است.آن ها را در دوسته ی رفتار سالم و نا سالم دسته بندی کن.

ورزش کردن- خواب کم یا زیاد- آتش بازی- توجه به علائم راهنمایی و رانندگی- سر را پایین انداخت زیاد شوخی و بازی در آب- شکستن بادام با دندان- مسواک زدن- درست نشستن و ایستادن

رفتار ناسالم

رفتار سالم

پاسخ کسرهای زیر را بنویس.

$$\frac{۲\frac{۳}{۸} - ۱\frac{۱}{۲}}{\frac{۶}{۸} + \frac{۱}{۸}} =$$

$$\frac{\frac{۶}{۸} - \frac{۲}{۳}}{۱ - \frac{۲}{٤}} =$$

با رنگ کردن شکل زیر مشخص کنید چند موجود زنده در این تصویر وجود دارد.



نام موجودات زنده را در این قسمت بنویس.

.....

.....

.....

ورزش و سرگرمی

ر	ب	س	ک	ت	ب	ا	ل	ب
ت	ی	ر	ا	ن	د	ا	ز	ی
ا	س	ک	ی	ک	ش	ت	ی	ش
ا	ر	ت	ک	و	ا	ن	د	و
د	و	چ	ر	خ	ه	س	و	ا
ر	ی	پ	ی	ن	گ	پ	و	ن
ش	ط	ر	ن	ج	و	ش	ک	گ
ز	و	ا	ت	ر	پ	ل	و	ا



۱- ورزش زمستانی
۲- ورزش آبی
۳- ورزش نشانه گیری
٤- ورزش رومیزی
٥- ورزش سبد دار
٦- ورزش فکری
۷- ورزش رزمی
۸- ورزش پا زدنی
۹- ورزش صعودی
۱۰- ورزش زورآزمایی

جدول زیر را کامل کن

مفرد	جمع
	فصول
کتاب	
	فضاها
لحظه	

خشم و تغییرات بدن

تغییرات بدن هنگام خشم را بنویس

۱- رنگ صورت.....
۲- ضربان قلب.....
۳- تنفس.....
٤- دست ها.....
٥- حرارت بدن.....
٦- صدا.....
۷- حالت چشم ها.....

راه های کنترل عصبانیت

۱- .....
۲- .....
۳- .....
٤- .....
٥- .....
٦- .....
۷- .....

جدول

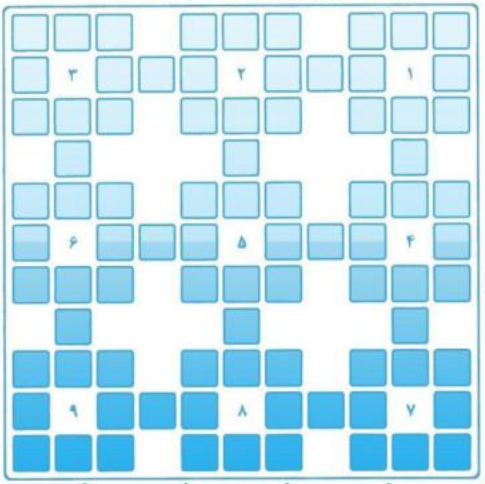

۱- روز ۳۱ شهریور آغاز سالگرد هفته ی.....است.
۲- آبراه جنوبی کشور ما.
۳- انتخاب لباس باید با.....ما متناسب باشد.
٤- کشور همسایه ی غیر مسلمان ما.
٥- خرمشهر را.....نام نهاده اند.
٦- استانی که در هشت سال دفاع مقدس جانانه در برابر دشمن ایستاد.
۷- رود مرزی ایران و عراق.
۸- خرمشهر در کنار این وسعت آبی قرار دارد.
۹- بنای تاریخی میدان نقش جهان.

موارد خواسته شده را بنویس.

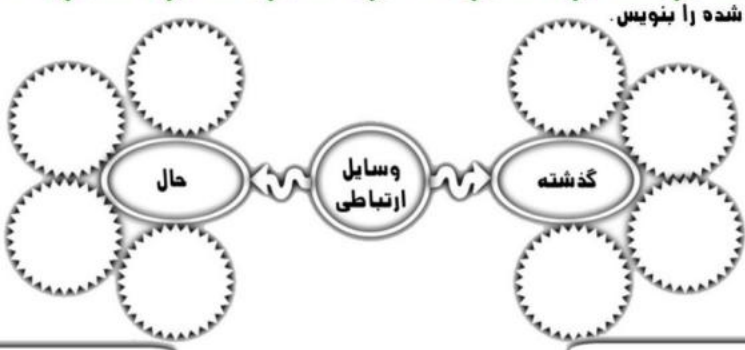

یک متن زیبا به بهترین کسی که دوستش داری بنویس.

.....

.....

.....

.....

.....

.....